Mathe Klasse 7 und Klasse 8

IMMERSCHLAU

Terme

Nachbarsteine werden addiert. Fülle die leeren Kästen aus.

a)

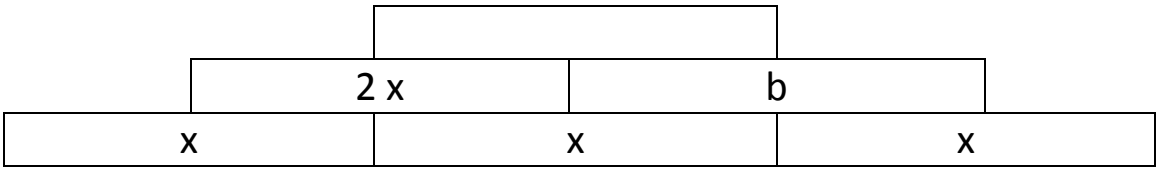

b)

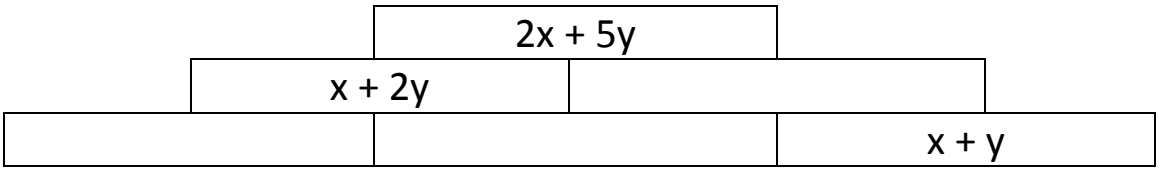

c)

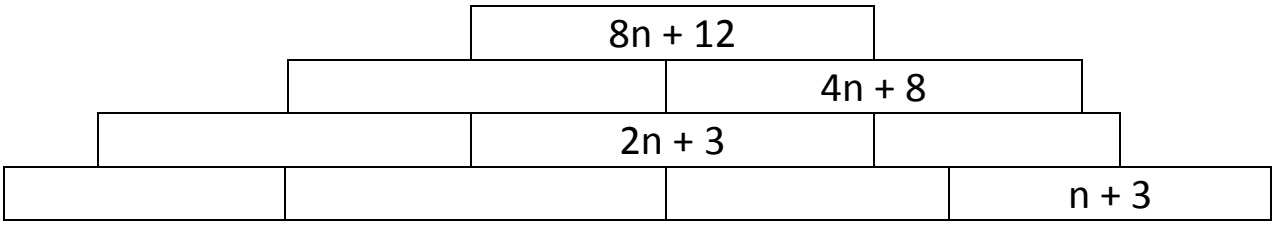

Lassen sich die Terme vereinfachen? Wenn ja, vereinfache sie.

a) 6 + 2x b) 7a – 7b c) 7a – a d) 6x + 2x

e) 6x + 5 f) 6k + 9k g) 2b – b + 7b + 2f